La Préhistoire

Notre lointain ancêtre, **l'Homo Habilis** tel qu'il devait être il y a 3 million d'années.
Image extraite du film « L'Odyssée de l'espèce » de Jacques Malaterre.

Frise Chronologique

La …… est la période la plus longue de notre frise historique.

Elle commence avec l'apparition de nos lointains ancêtre les « …… » elle se termine avec l'invention des premières formes ……
Elle commence il y a environ ……
……
Elle se termine environ …… ans avant Jésus Christ.



Les premiers hommes

Il y a des millions d 'années, des primates (des singes) ont commencé à se tenir debout. En devenant …… leur cerveau s'est développé en même temps que leur habilité à se servir de leurs mains.
Le premier squelette à peu près complet d'un primate en partie bipède (celui de l'australopithèque ……), a été découvert en 1978 en en ……

Lucy devait mesurer entre 1,10 m et 1,20 m, et peser au maximum 25 kg. Elle est morte à environ 25 ans et le fait que ses ossements n'aient pas été dispersés par un charognard indique un enfouissement rapide, peut-être à la suite d'une noyade.

La préhistoire est partagée en deux grandes périodes.

Le ……
«…… »
est la première.
Cette période est la plus longue, elle commence avec l'apparition de l'Homme, il y a environ ……
…… et s'achève vers ……

Le ……
«…… »
est la période la plus récente de la Préhistoire.

Au Proche-Orient, elle commence vers …… avec l'apparition de …… , et prend fin avec l'apparition de …… aux alentours de …… .

Bout de Gomme

La Préhistoire

Notre lointain ancêtre, **l'Homo Habilis** tel qu'il devait être il y a 3 million d'années.
Image extraite du film « L'Odyssée de l'espèce » de Jacques Malaterre.

Frise Chronologique

La Préhistoire est la période la plus longue de notre frise historique.

Elle commence avec l'apparition de nos lointains ancêtre les « hominidés » elle se termine avec l'invention des premières formes d'écriture
Elle commence il y a environ 3 millions d'années

Elle se termine environ 3 500 ans avant Jésus Christ.

Les premiers hommes

Il y a des millions d 'années, des primates (des singes) ont commencé à se tenir debout. En devenant bipèdes leur cerveau s'est développé en même temps que leur habilité à se servir de leurs mains.

Le premier squelette à peu près complet d'un primate en partie bipède (celui de l'australopithèque Lucy 20 ans), a été découvert en 1978 en en Afrique.



Lucy devait mesurer entre 1,10 m et 1,20 m, et peser au maximum 25 kg. Elle est morte à environ 25 ans et le fait que ses ossements n'aient pas été dispersés par un charognard indique un enfouissement rapide, peut-être à la suite d'une noyade.

La préhistoire est partagée en deux grandes périodes.

Le Paléolithique

« Age de la pierre taillée » est la première.
Cette période est la plus longue, elle commence avec l'apparition de l'Homme, il y a environ 3 Millions d'années et s'achève vers - 12 000 ans.

Le Néolithique

« Age de la pierre polie » est la période la plus récente de la Préhistoire.

Au Proche-Orient, elle commence vers - 8000 avec l'apparition de l'agriculture, et prend fin avec l'apparition de l'écriture aux alentours de – 3 500 .

Bout de Gomme

- 3 000 000 années — **- 8 000** — **- 3 500**

....

La Préhistoire

La longue durée des temps préhistoriques

Le Paléolithique (Age de la pierre taillée) est une très très longue période comparée aux autres périodes que sont le Néolithique (Age de la pierre polie) et l'Histoire (Antiquité, Moyen Age, Temps Modernes et Epoque Contemporaine).

Colorie et complète le graphique :
Paléolithique en orange
Néolithique en brun
Histoire en rouge

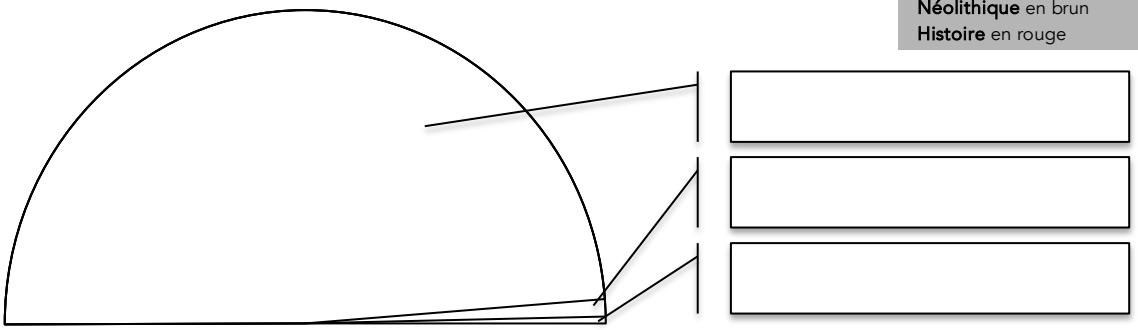

Le peuplement de la Terre

Les premiers représentants de l'espèce humaine sont apparus en Afrique. De là, au fil de très longues périodes, les hommes ont migré vers d'autres lieux.

① Colorie en vert la région d'Afrique dont l'humanité est originaire.

② Dessine ensuite 2 flèches montrant les premiers déplacements humains vers l'Afrique de l'Ouest et le Moyen Orient.

③ De là, trace ensuite 3 flèches indiquant la suite de ces déplacements vers l'Europe, l'Asie et l'Océanie.

④ Puis, trace les flèches montrant les migrations plus tardives vers l'Australie et l'Amérique du Nord et enfin ⑤ l'Amérique du Sud.

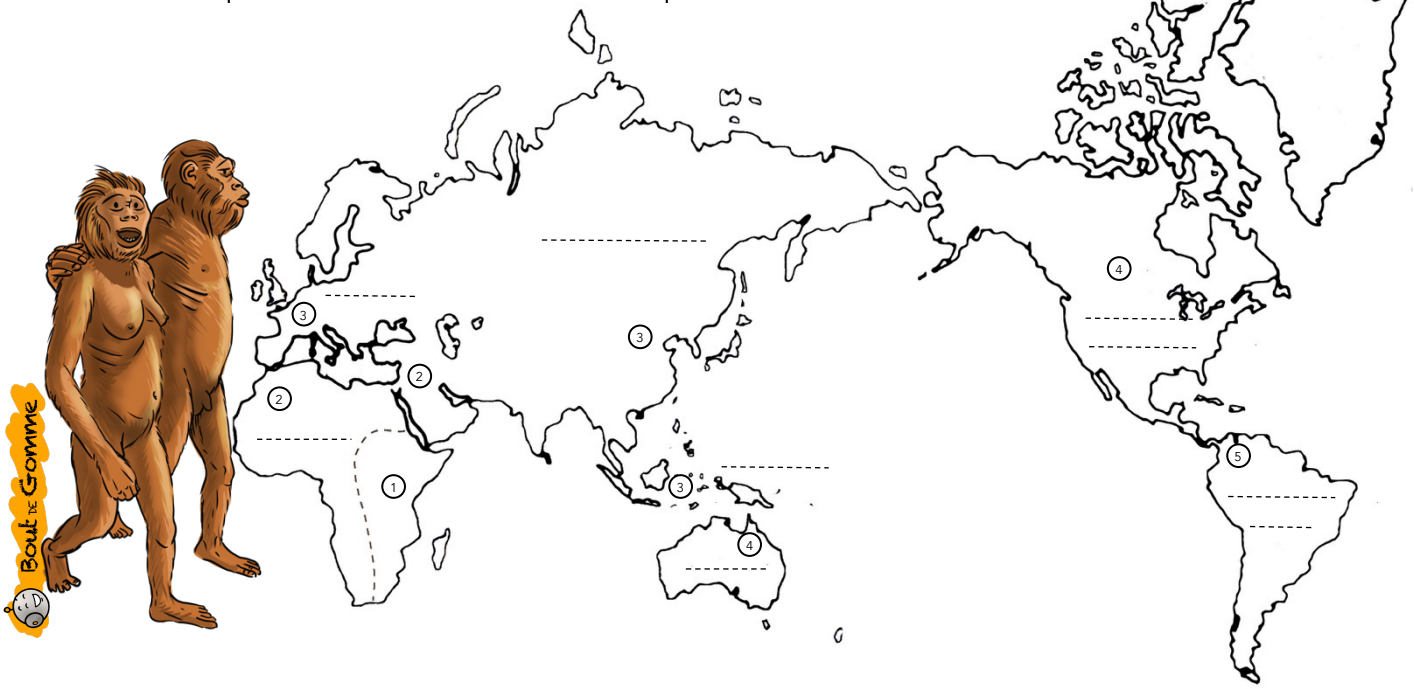

- 3 000 000 années - 8 000 - 3 500

La Préhistoire

La longue durée des temps préhistoriques

Le Paléolithique (Age de la pierre taillée) est une très très longue période, comparée aux autres périodes que sont le Néolithique (Age de la pierre polie) et l'Histoire (Antiquité, Moyen Age, Temps Modernes et Epoque Contemporaine).

Colorie et complète le graphique :
Paléolithique en orange
Néolithique en brun
Histoire en rouge

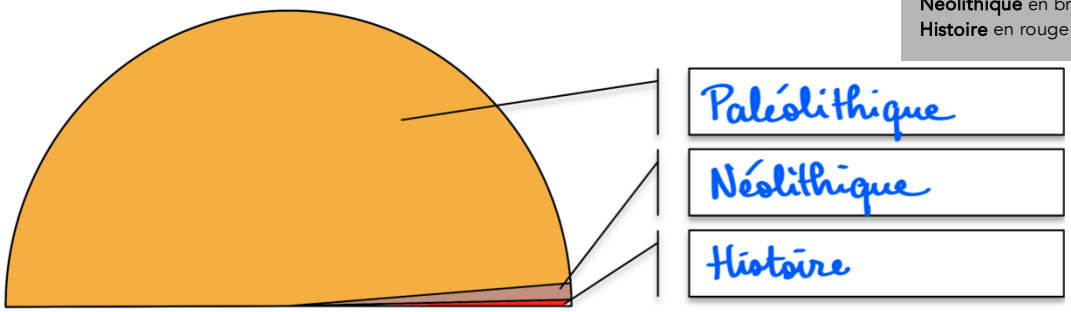

Le peuplement de la Terre

Les premiers représentants de l'espèce humaine sont apparus en **Afrique**. De là, au fil de très longues périodes, les hommes ont migré vers d'autres lieux.

① Colorie en vert la région d'Afrique dont l'humanité est originaire.

② Dessine ensuite 2 flèches montrant les premiers déplacements humains vers l'Afrique de l'Ouest et le Moyen Orient.

③ De là, trace ensuite 3 flèches indiquant la suite de ces déplacements vers l'Europe, l'Asie et l'Océanie.

④ Puis, trace les flèches montrant les migrations plus tardives vers l'Australie et l'Amérique du Nord et ⑤ enfin l'Amérique du Sud.

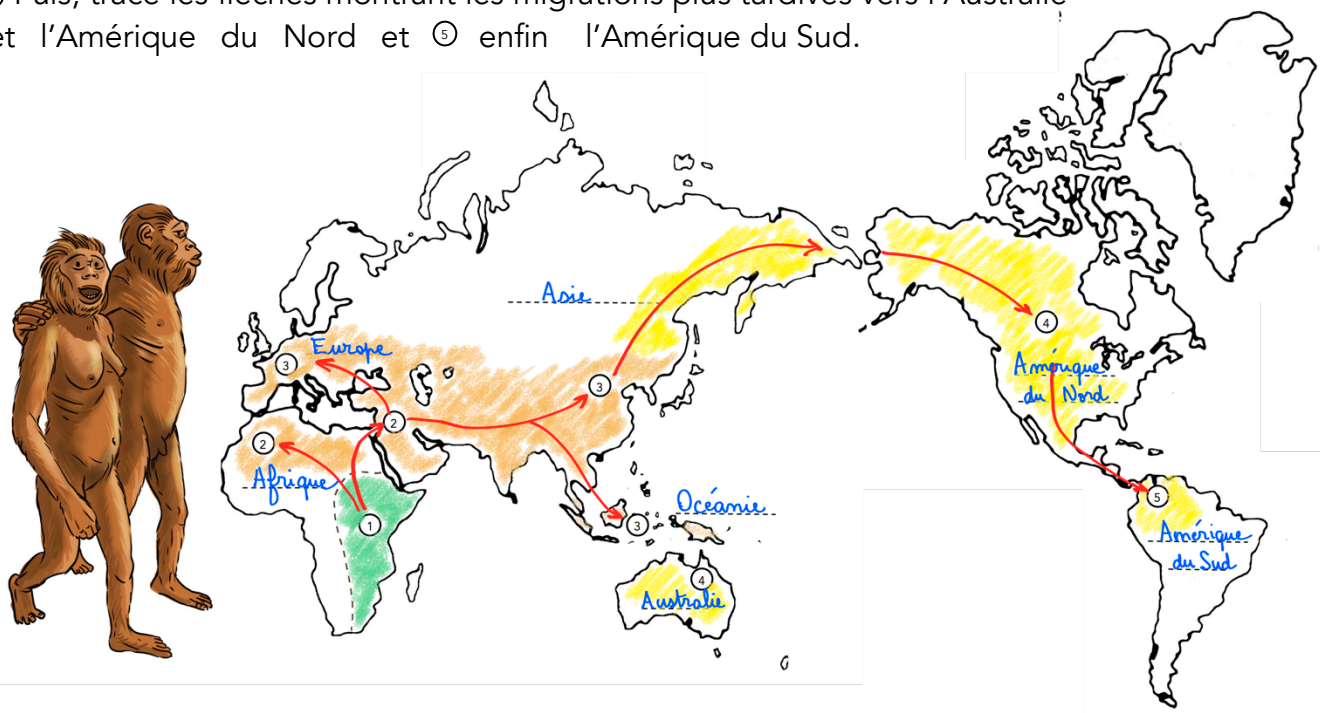

Bout de Gomme

Résumé : La Préhistoire

La Préhistoire est la première et la plus longue période de notre frise historique.
Elle commence avec l'apparition des premiers hommes en Afrique, il y a presque 3 millions d'années et se termine avec l'apparition de l'écriture en – 3 500.
La préhistoire est partagée en deux époques :
l'Age de la pierre taillée (Paléolithique)
et l'Age de la pierre polie (Néolithique).

La Préhistoire
Je prépare mon évaluation

Quelles sont les deux grandes périodes qui composent la préhistoire ?

La Préhistoire

Sur quel continent sont apparus les premiers hommes ?
……..
Quel événement marque le début de la Préhistoire?
……..
A quelle date ?
……..
Quel événement marque le début deuxième partie de la Préhistoire ?
……..
A quelle date ?
……..
Quel événement marque la fin de la Préhistoire ?
……..
A quelle date ?
……..

Bout de Gomme

Résumé : La Préhistoire

La _____ est la première et la plus _____ période de notre frise historique.
Elle commence avec l'apparition des _____ _____ en _____, il y a presque _____ et se termine avec l'apparition de _____ en _____.
La préhistoire est partagée en deux époques :
l'Age de la pierre taillée (_____)
et l'Age de la pierre polie (_____).

La Préhistoire
Je prépare mon évaluation

Quelles sont les deux grandes périodes qui composent la préhistoire ?

.....	.....

.....

Sur quel continent sont apparus les premiers hommes ?
.....
Quel événement marque le début de la Préhistoire?
.....
A quelle date ?
.....
Quel événement marque le début deuxième partie de la Préhistoire ?
.....
A quelle date ?
.....
Quel événement marque la fin de la Préhistoire ?
.....
A quelle date ?
.....

Bout de Gomme

Neandertal et Homo Sapiens

Depuis 1,5 millions d'années, les premiers hommes se sont installés en Europe.
Il y a -250 000 ans apparaît l'homme de Neandertal.
C'est un homme moderne, il sait faire le feu, fabrique des vêtements, des bijoux et enterre ses morts.
Puis ; il finit par disparaître il y a – 35 000 ans.

C'est ensuite Homo Sapiens apparu il y a 200 0000 ans, il est parti d'Afrique et passant par le Moyen-Orient, s'est répandu en Europe et en Asie, puis dans le reste du monde.
C'est notre ancêtre direct : il est physiquement, complétement semblable à nous.



La cueillette

L'homme de la pierre taillée

A cette époque, l'homme vit de la chasse, de la pêche et de la cueillette.

Il ne vit pas à un endroit fixe, il suit les migrations des troupeaux. Il est nomade.
L'invention la plus importante de cette époque fut sans doute celle du feu.
Grâce à lui, les hommes peuvent se chauffer, s'éclairer, cuire leurs aliments et effrayer les bêtes féroces.
Ils perfectionnent leurs outils fabriqués avec une pierre très dure : le silex.
On en fait des couteaux, des pointes de lance. Ils utilisent également les os ou l'ivoire.

L'invention de l'aiguille va leur permettre de coudre des vêtements qui leur permettront de résister au grand froid qui règne sur l'Europe à cette époque.

Bifaces en silex, harpon et aiguille en os

Neandertal et Homo Sapiens

Depuis 1,5 millions d'années, les premiers hommes se sont installés en Europe.
Il y a -250 000 ans apparaît ……..…..
……..…..
C'est un homme moderne, il sait faire le feu, fabrique des vêtements, des bijoux et enterre ses morts.
Puis ; il finit par disparaître il y a – 35 000 ans.

C'est ensuite …….. apparu il y a 200 0000 ans, il est parti d'Afrique et passant par le Moyen-Orient, s'est répandu en Europe et en Asie, puis dans le reste du monde.
C'est ……..…..…..…..**:** il est physiquement, complétement semblable à nous.

……..……..

L'homme de la pierre taillée

A cette époque, l'homme vit de ……..…..…., de ……..…..…..… et de ……..…..…..

Il ne vit pas à un endroit fixe, il suit les migrations des troupeaux. Il est ……..…..…..
L'invention la plus importante de cette époque fut sans doute celle du ……..…..
Grâce à lui, les hommes peuvent se chauffer, s'éclairer, cuire leurs aliments et effrayer les bêtes féroces.
Ils perfectionnent leurs outils fabriqués avec une pierre très dure : ……..…..…..
On en fait des couteaux, des pointes de lance. Ils utilisent également les os ou l'ivoire.

L'invention de ……..…..… va leur permettre de coudre des vêtements qui leur permettront de résister au grand froid qui règne sur l'Europe à cette époque.

……..……..……..

La révolution du feu !

La domestication du feu change complétement la vie de l'homme.

Complète le dessin avec les mots de la leçon ou d'autres idées que tu pourrais avoir.

Le feu permet de ...

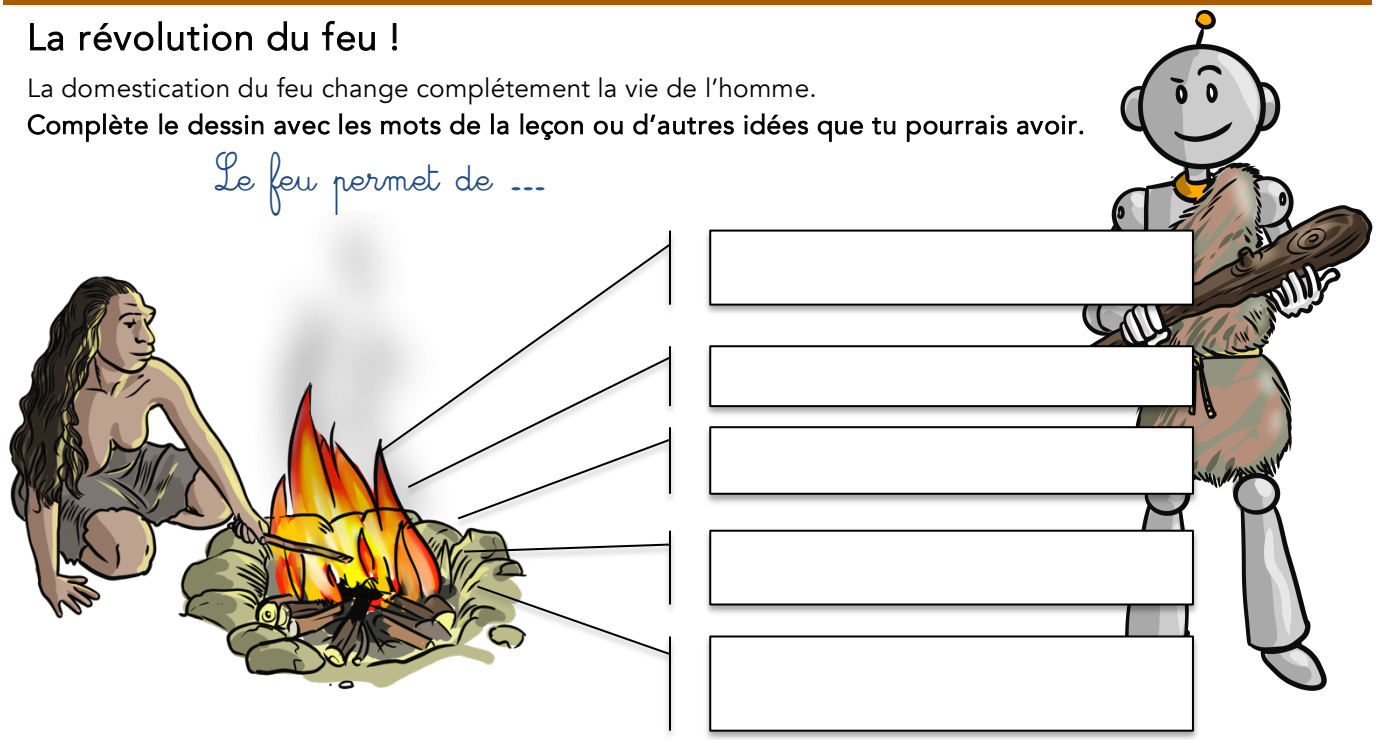

Cherche dans ton dictionnaire les définitions des mots suivants :

Silex : .....

.....

Ivoire : .....

.....

Bipède : .....

.....

Nomade : .....

.....

Les outils du Paléolithique

Relie chaque outil à sa fonction puis à son nom.

Pour coudre des vêtements	Aiguille à chas
Généralement employé pour la pêche	Biface
Pour creuser, couper, hacher, percer, frapper,	Harpon
Arme de chasse utilisée avec l'arc.	Racloir
Pour le dépeçage et le raclage de la peau, ou le travail du bois.	Pointe de flèche
Arme pour le combat ou la chasse. Peut couper pu percer.	Pointe de sagaie
Arme de jet destinée à la chasse et à la pêche.	Poignard

Bout de Gomme

La révolution du feu !

La domestication du feu change complétement la vie de l'homme.
Complète le dessin avec les mots de la leçon ou d'autres idées que tu pourrais avoir.

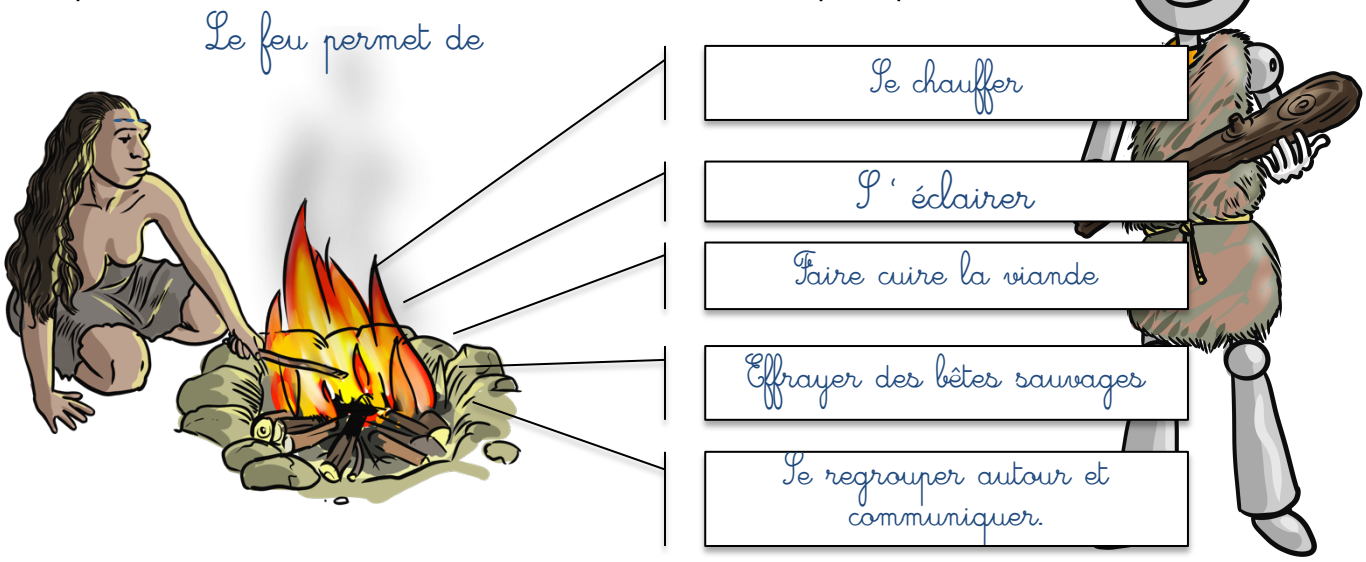

Cherche dans ton dictionnaire les définitions des mots suivants :

Silex : .....
.....
Ivoire : .....
.....
Bipède : .....
.....
Nomade : .....
.....

Les outils du Paléolithique

Relie chaque outil à sa fonction puis à son nom.

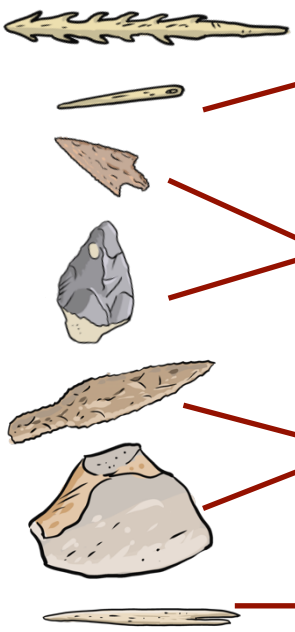

- Pour coudre des vêtements → Aiguille à chas
- Généralement employé pour la pêche → Harpon
- Pour creuser, couper, hacher, percer, frapper, → Biface
- Arme de chasse utilisée avec l'arc. → Pointe de flèche
- Pour le dépeçage et le raclage de la peau, ou le travail du bois. → Racloir
- Arme pour le combat ou la chasse. Peut couper pu percer. → Pointe de sagaie
- Arme de jet destinée à la chasse et à la pêche. → Poignard

Bout de Gomme

L'Age de la pierre taillée II

17 000 ans av JC, des hommes décoraient les parois d'une grotte du Périgord de fresques magnifiques.

La grotte de Lascaux

Cro Magnon

L'Homme de Cro-Magnon est un nom utilisé pour désigner les homo sapiens installés en Europe entre 40 000 et 10 000 ans avant notre ère.

Les hommes enterrent leurs morts qu'ils parent de bijoux en os ou en coquillage. Ils croient certainement à une vie après la mort.

Dame de Brassempouy, une statuette en ivoire est la plus ancienne représentation de visage humaine (-21 000)

A la fin du Paléolithique, les hommes réalisent de magnifiques peintures sur les parois des grottes (ce qu'on appelle des peintures pariétales). Elles représentent souvent les animaux qu'ils chassent : chevaux, bisons, mammouths, rhinocéros.
Ils sculptent aussi des statuettes dans le bois ou l'ivoire.

Ils vivent dans des huttes faites de branches ou d'os de mammouth recouverts de peaux.

Parfois, ils s'installent à l'entrée des grottes qui peuvent leur offrir protection en cas de danger.

Un village de nomades à la fin du Paléolithique.

L'Age de la pierre taillée II

17 000 ans av JC, des hommes décoraient les parois d'une grotte du Périgord de fresques magnifiques.

……

Cro Magnon

L'Homme de …….. est un nom utilisé pour désigner les homo sapiens installés en Europe entre 40 000 et 10 000 ans avant notre ère.

Dame de Brassempouy, une statuette en ivoire est la plus ancienne représentation de visage humaine (-21 000)

Les hommes enterrent leurs morts qu'ils parent de …….. en os ou en coquillage. Ils croient certainement à une vie après la mort.

A la fin du Paléolithique, les hommes réalisent de magnifiques peintures sur les parois des grottes (ce qu'on appelle des …….. ……..). Elles représentent souvent les animaux qu'ils chassent : chevaux, bisons, mammouths, rhinocéros.
Ils sculptent aussi des …….. dans le bois ou l'ivoire.

Ils vivent dans des …….. faites de branches ou d'os de mammouth recouverts de peaux.

Parfois, ils s'installent à …….. …….. qui peuvent leur offrir protection en cas de danger.



……

Bout de Gomme

Résumé : L'âge de la pierre taillée

Notre ancêtre _____ est apparu en _____ il y a _____ ans. A cette époque, il est _____, il maîtrise _____ ; il utilise des outils en _____ et en _____ ou en _____. Plus tard il invente _____ qui lui permettra de coudre des vêtements.

On appelle _____ les Homo Sapiens installés en _____ vers – 40 000 ans. Il a développé des formes de _____ et _____.

Je prépare mon évaluation

La révolution du feu !

Sans regarder essaie de



Apprends les définitions :

Silex : .....

.....

Ivoire : .....

.....

Bipède : .....

.....

Nomade : .....

.....

1 – Que représentaient les peintures que Cro-Magnon peignait dans les cavernes ?
2 – Pourquoi enterrait-il ses morts parés de bijoux ?
3 – Quel était son habitat ?
4 – Quels sont les 3 types matériaux qu'il utilisait pour fabriquer des outils ?
5 – Quels étaient ses 3 modes de subsistance ?
6 – Sur quel continent vivait Cro-Magnon ?
7 – Depuis quand ?

Bout de Gomme

Résumé : L'âge de la pierre taillée

Notre ancêtre l'Homo sapiens est apparu en Afrique il y a 200 000 ans. A cette époque, il est nomade, il maîtrise le feu ; il utilise des outils en bois et en silex ou en ivoire. Plus tard il invente l'aiguille qui lui permettra de coudre des vêtements.

On appelle Cro-Magnon les Homo Sapiens installés en Europe vers – 40 000 ans. Il a développé des formes de religion et d'arts.

Je prépare mon évaluation

La révolution du feu !

Sans regarder essaie de compléter à nouveau la légende de ce dessin.

Le feu permet de ...



- Se chauffer
- S' éclairer
- Faire cuire la viande
- Effrayer des bêtes sauvages
- Se regrouper autour et communiquer.

Apprends les définitions :

Silex : .....

.....

Ivoire : .....

.....

Bipède : .....

.....

Nomade : .....

.....

1 – Que représentaient les peintures que Cro-Magnon peignait dans les cavernes ?

2 – Pourquoi enterrait-il ses morts parés de bijoux ?

3 – Quel était son habitat ?

4 – Quels sont les 3 types matériaux qu'il utilisait pour fabriquer des outils ?

5 – Quels étaient ses 3 modes de subsistance ?

6 – Sur quel continent vivait Cro-Magnon ?

7 – Depuis quand ?

Bout de Gomme

L'Age de la pierre polie

Un village du Néolithique
Photo : Alfons-Georg Zuellig

L'homme de la pierre polie

15 000 ans av JC, le climat se radoucit. Les hommes perfectionnent encore leurs outils en polissant la pierre, en la frottant patiemment sur une roche plus dure.

En ……, apparaissent …… et …… dans les régions du Proche Orient (Irak, Syrie).

L'homme apprend à cultiver le …… et cuire des galettes de pain.

Avec le lin et le chanvre, il fait des cordages et des filets.

Ils inventent les premiers …… et se confectionnent des vêtements de laine.

Ils …… …… comme …… …… …… …… ……

L'homme devient ……..

En effet il n'a plus besoin de suivre les troupeaux. Il peut s'installer et construire des habitations plus élaborées. Les populations se regroupent en …….. Chacun se spécialise dans certaines tâches artisanales au profit de la communauté.

……
……

Les premières cités

Certains villages vont grandir, devenir des villes puis des empires.

Du développement de certaines fermes naquirent les ……..

Çatal Höyük est une des plus anciennes agglomérations au monde. Elle fut fondée vers **7 000 av JC**, en Anatolie, dans l'actuelle Turquie.

À son apogée, elle compte 5 000 habitants (ce qui est considérable à l'époque). Elle fait du …… avec d'autres contrées lointaines et développe un …… de qualité. Elle recèle des sanctuaires avec des peintures murales, des figurines et des sépultures, témoignant d'une ……. …… complexe.



……

Bout de Gomme

HISTOIRE CM1

Un village du Néolithique
Photo : Alfons-Georg Zuellig

L'homme de la pierre polie

15 000 ans av JC, le climat se radoucit. Les hommes perfectionnent encore leurs outils en **polissant la pierre**, en la frottant patiemment sur une roche plus dure.

En **- 8000** apparaissent **l'agriculture** et **l'élevage** dans les régions du Proche Orient (Irak, Syrie).

L'homme apprend à cultiver le **blé** et cuire des galettes de pain.

Avec le lin et le chanvre, il fait des cordages et des filets.

Ils inventent les premiers **métiers à tisser** et se confectionnent des vêtements de laine.

Ils **domestiquent les animaux** comme **le chien, le cheval, le mouton, le porc ou la chèvre**

L'homme devient **sédentaire**

En effet il n'a plus besoin de suivre les troupeaux. Il peut s'installer et construire des habitations plus élaborées. Les populations se regroupent en **villages** Chacun se spécialise dans certaines tâches artisanales au profit de la communauté.

Manche de hache en pierre polie

Les premières cités

Certains villages vont grandir, devenir des villes puis des empires.

Du développement de certaines fermes naquirent les **premières villes**

Çatal Höyük est une des plus anciennes agglomérations au monde. Elle fut fondée vers **7 000 av JC**, en Anatolie, dans l'actuelle Turquie.

À son apogée, elle compte 5 000 habitants (ce qui est considérable à l'époque). Elle fait du **commerce** avec d'autres contrées lointaines et développe un **artisanat** de qualité. Elle recèle des sanctuaires avec des peintures murales, des figurines et des sépultures, témoignant d'une **vie religieuse** complexe.



Il y a 9 000 ans **Çatal Höyük en Anatolie (Turquie)**

Bout de Gomme

Complète la frise du Néolithique :

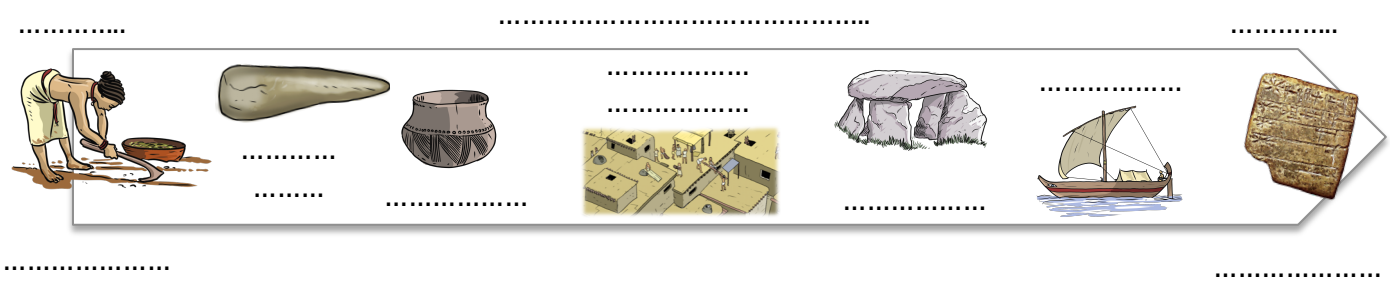

Carnac, Un temple du Néolithique

A Carnac en Bretagne, Il s'agit d'un site d'alignements de **menhirs**, de **dolmens** et d'allées couvertes et réparti sur plus de quatre kilomètres.
Leur installation remonte à la fin du Néolithique. On pense que leur fonction était d'ordre sacrée ou funéraire.



Un menhir est une pierre dressée, plantée verticalement

Un dolmen est une construction mégalithique préhistorique constituée d'une ou plusieurs grosses dalles posées sur des pierres verticales qui lui servent de pieds.
A la préhistoire, il était recouvert de pierre et de terre, formant ainsi une petite butte (tumulus).
On pense qu'il s'agissaient de tombes collectives.

Origine des mots :

Nous avons utilisé les mots : paléolithique, néolithique et mégalithique. Ils sont tous les trois composés de la même partie : « lithique ». Elle vient du grec « lithos ».
Que signifie le mot « lithos » ? ……
Paléolithique (du grec : palaios + lithos) ? ……
Néolithique (du grec : néios + lithos) ? ……
Mégalithique (du grec : megas + lithos) ? ……

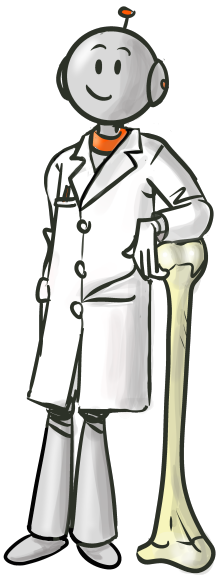

Voici une hache en pierre polie. Il lui manque son manche. Dessine le.



Complète la frise du Néolithique :

- 8 000 **Néolithique** - 3 500

Agriculture écriture

Carnac, Un temple du Néolithique



A Carnac en Bretagne, Il s'agit d'un site d'alignements de **menhirs**, de **dolmens** et d'allées couvertes et réparti sur plus de quatre kilomètres.
Leur installation remonte à la fin du Néolithique. On pense que leur fonction était d'ordre sacrée ou funéraire.



Un menhir est une pierre dressée, plantée verticalement

Un dolmen est une construction mégalithique préhistorique constituée d'une ou plusieurs grosses dalles posées sur des pierres verticales qui lui servent de pieds.
A la préhistoire, il était recouvert de pierre et de terre, formant ainsi une petite butte (tumulus).
On pense qu'il s'agissaient de tombes collectives.

Origine des mots :

Nous avons utilisé les mots : paléolithique, néolithique et mégalithique. Ils sont tous les trois composés de la même partie : « lithique ». Elle vient du grec « lithos ».
Que signifie le mot « lithos » ? ……
Paléolithique (du grec : palaios + lithos) ? ……
Néolithique (du grec : néios + lithos) ? ……
Mégalithique (du grec : megas + lithos) ? ……

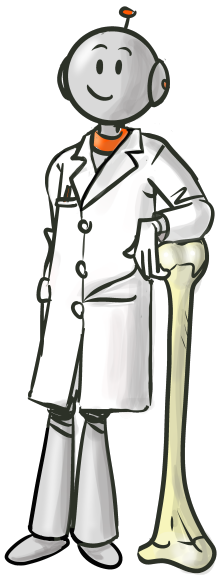

Voici une hache en pierre polie. Il lui manque son manche. Dessine le.



Résumé : L'âge de la pierre polie

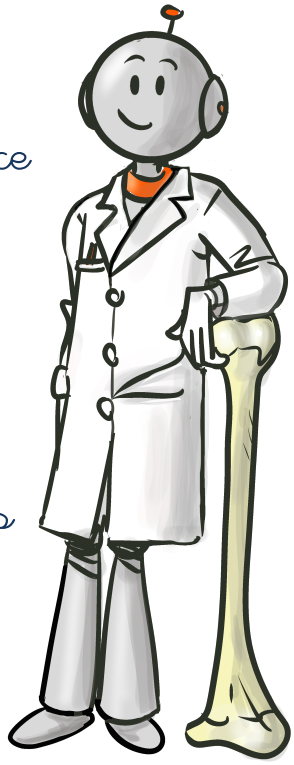

Le Néolithique ou Age de la pierre polie commence avec l'apparition de l'agriculture. Les hommes deviennent sédentaires. Ils élèvent ou domestiquent les animaux. Des villages se forment puis les premières villes. Les premières civilisations apparaissent au Moyen Orient.
En Europe Les hommes dressent des menhirs et des dolmens pour rendre hommage à leurs dieux ou à leurs morts.

Je prépare mon évaluation

1 – Pourquoi appelle –t-on cette période l'Age de la pierre polie ?

.....

2 – Avec quel appareil fabrique t-on du tissus ?

.....

3 – Pourquoi les hommes ne sont-ils plus obligés de chasser pour se nourrir ?

.....

5 – Pourquoi les hommes deviennent-ils sédentaires ?

.....

.....

.....

6 – Quels sont les animaux que l'homme domestique ? Pourquoi ?

.....

.....

.....

Bout de Gomme

Résumé : L'âge de la pierre polie

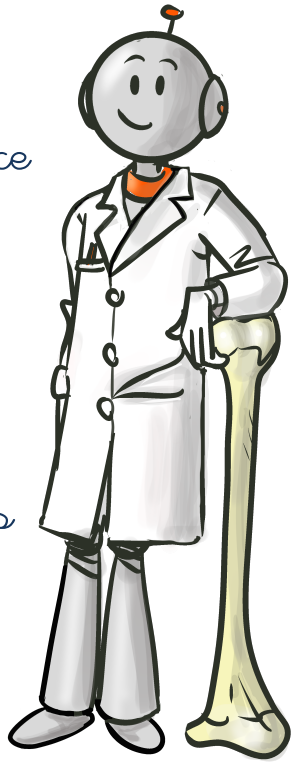

Le Néolithique ou _____ commence avec l'apparition de _____. Les hommes deviennent _____. Ils élèvent ou domestiquent les animaux. Des _____ se forment puis _____ _____. Les premières _____ apparaissent au Moyen Orient.
En Europe Les hommes dressent des _____ et des _____ pour rendre hommage à leurs dieux ou à leurs morts.

Je prépare mon évaluation

1 – Pourquoi appelle –t-on cette période l'Age de la pierre polie ?

.....

2 – Avec quel appareil fabrique t-on du tissus ?

.....

3 – Pourquoi les hommes ne sont-ils plus obligés de chasser pour se nourrir ?

.....

5 – Pourquoi les hommes deviennent-ils sédentaires ?

.....

.....

.....

6 – Quels sont les animaux que l'homme domestique ? Pourquoi ?

.....

.....

.....

Bout de Gomme